CISD Grade 2 Math Unit 11 SPANISH

Some questions (c) 2012 by CSCOPE.

1 Bryan hizo 5 torres con cubos conectables. Cada torre tenía 6 cubos. ¿Cuántos cubos usó Bryan para hacer las 5 torres?

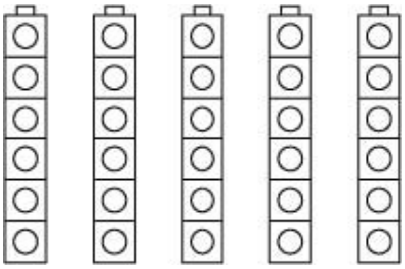

A 15 cubos

B 25 cubos

C 30 cubos

2 En la sala de espera de la Dra. Cramer hay 3 sofás. Quiere poner el mismo número de cojines en cada sofá. Tiene 12 cojines. ¿Cuántos cojines debe poner en cada sofá?

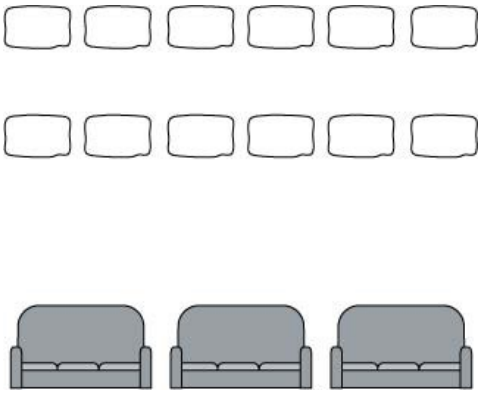

A 4 cojines

B 5 cojines

C 6 cojines

3 ¿Cuál modelo representa la siguiente oración numérica de multiplicación?

7 x 4 = 4 + 4 + 4 + 4 + 4 + 4 + 4 = 28

A

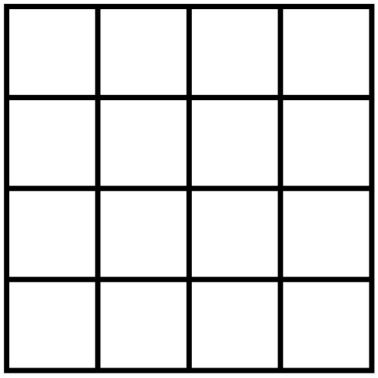

B

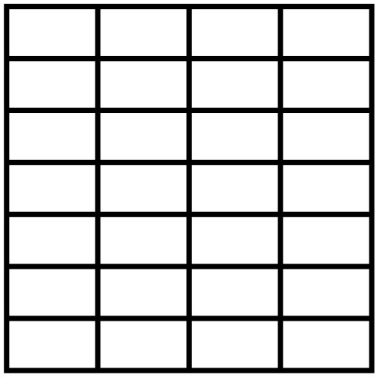

C



4 Copper hizo una tabla de cuántos libros podía leer cada semana. Notó un patrón en su tabla.

Número de semana	**Número de libros leídos**
1	2
2	4
3	6
4	?

¿Cuál oración numerica podría usar Copper para predecir cuántos libros leerá en la semana 4?

A 4 + 4 + 4 + 4 = 16

B 2 + 2 + 2 + 2 = 8

C 4 + 2 = 6

5 Sharla estaba de visita en la granja de su abuelo. Su abuelo le pidió que contara cuántas herraduras necesitaba para ponerles zapatos nuevos a sus caballos. Sharla notó el siguiente patrón.

Para un caballo, necesitarían 4 zapatos.
Para dos caballos, necesitarían 8 zapatos.

Si este patrón continúa, ¿cuántas herraduras necesitarán para 6 caballos?



A 6 herraduras

B 10 herraduras

C 24 herraduras

6 Tina hizo 4 collares. Puso 6 cuentas en cada collar. ¿Cuántas cuentas usó Tina para hacer los cuatro collares?

A 20 cuentas

B 24 cuentas

C 28 cuentas

7 Liz tenía una docena de galletas. ¿Cuál de los siguientes grupos muestra cómo repartió Liz las galletas en partes iguales entre ella y sus 3 amigas?

A



B

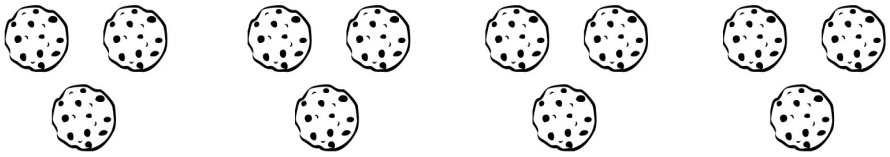

C



GO ON

8 Michael tiene 24 carritos de juguete. Los dividió en partes iguales en grupos de 6. ¿Cuál opción muestra el número de carritos que hay en cada grupo?

A

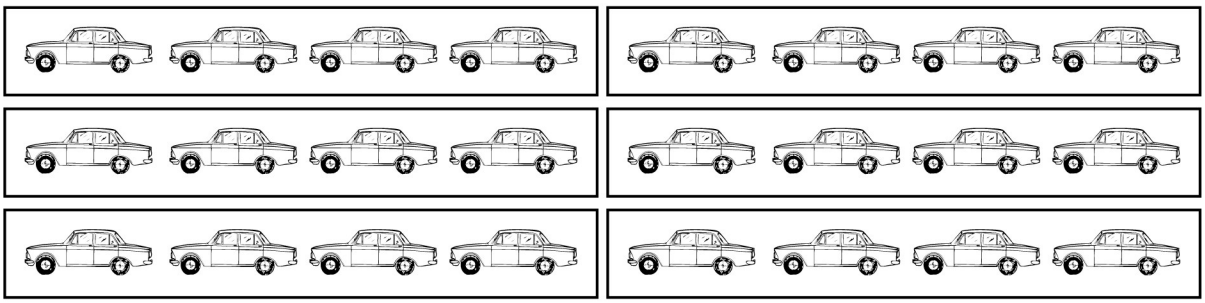

B

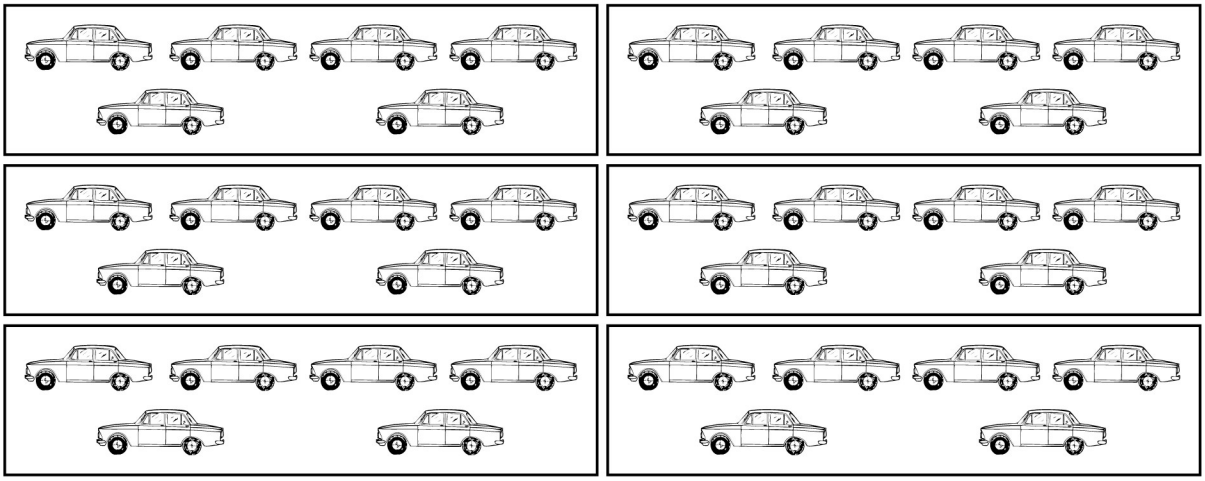

C

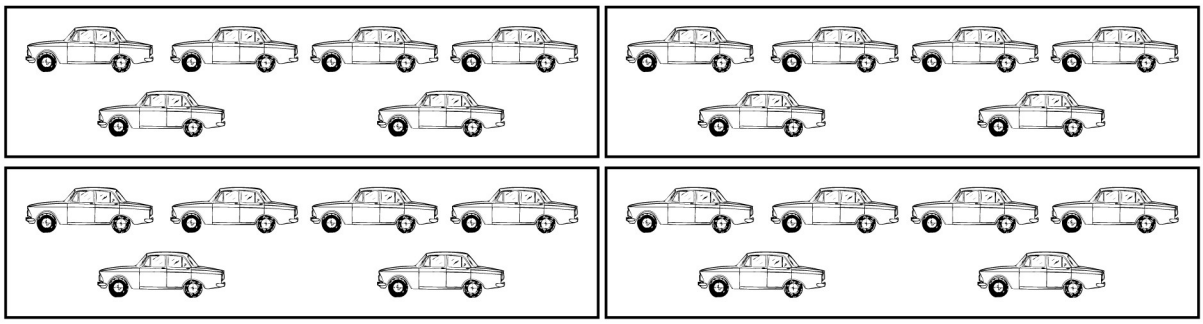

GO ON

9 Tonya tiene 6 hojas de papel en la mesa. En cada hoja dibujó 6 círculos. ¿Cuál opción representa las hojas en las que Tonya dibujó los círculos?

A

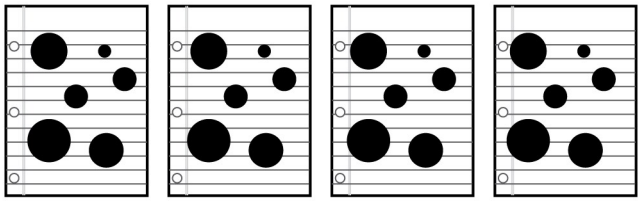

B

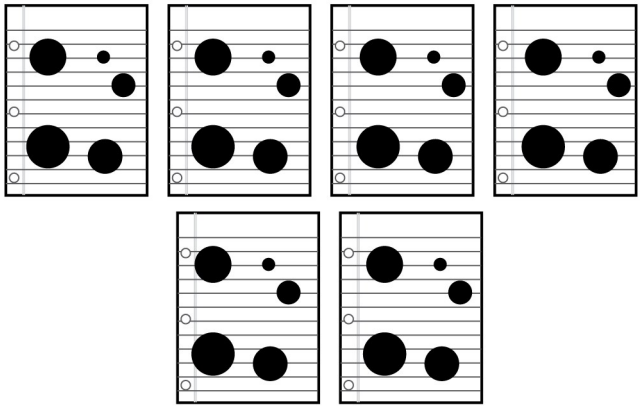

C

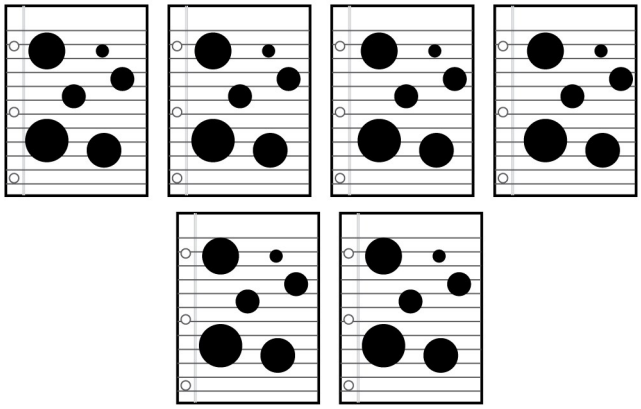

GO ON

10 Usa materiales manipulables para representar el siguiente problema.

Amber preparó 6 pastelitos para sus amigas. Tenía 12 dulces para decorar los pastelitos. Amber puso el mismo número de dulces en cada pastelito.



¿Cuántos dulces hay en cada pastelillo?

A 1 dulce

B 2 dulces

C 6 dulces

GO ON

11 Roy tiene 5 camisetas del uniforme de la escuela para toda la semana. Cada camiseta tiene 3 botones. ¿Cuál de los siguientes grupos de camisetas muestra el número de botones en todas las camisetas del uniforme de Roy?

A

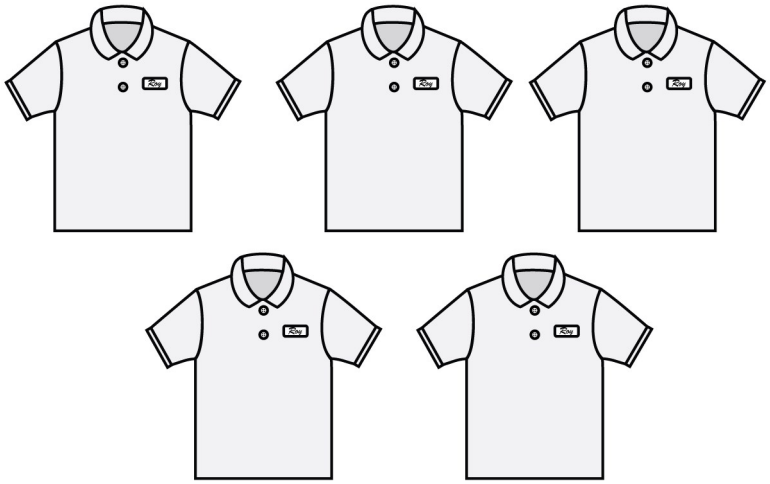

B



C



12 Kyle y su hermano se encontraron 14 monedas de 1 centavo debajo de la cama. Se las repartieron en partes iguales. ¿Cuántas monedas le tocaron a cada uno para ponerlas en su alcancía?

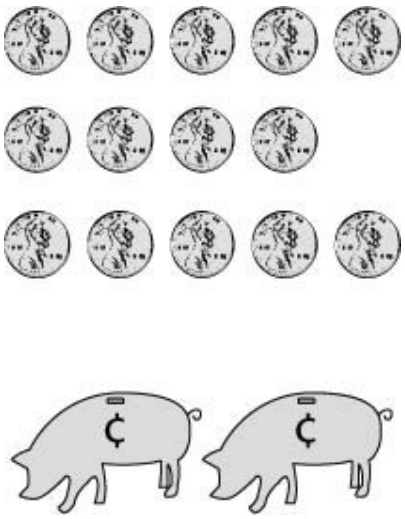

A 5 monedas de 1 centavo

B 6 monedas de 1 centavo

C 7 monedas de 1 centavo

BE SURE YOU HAVE RECORDED ALL OF YOUR ANSWERS ON YOUR ANSWER DOCUMENT

STOP